Collège De La Salle **Section du petit primaire**

Daher **3ème primaire – Mars 2020**

L'aire (Réponses)

L'aire d'une figure est le nombre d'unités qui composent cette figure

1.Rami dessine 2 figures différentes . Observe-les puis complète :

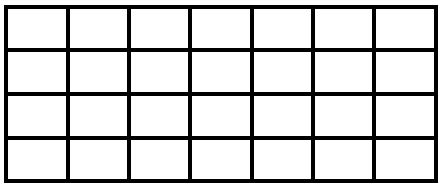



La 1ère figure est composée de 28 unités et son aire = 28 unités d'aire

La 2ème figure est formée de 16 unités et son aire = 16 unités d'aire

2. Calcule l'aire des figures suivantes :-

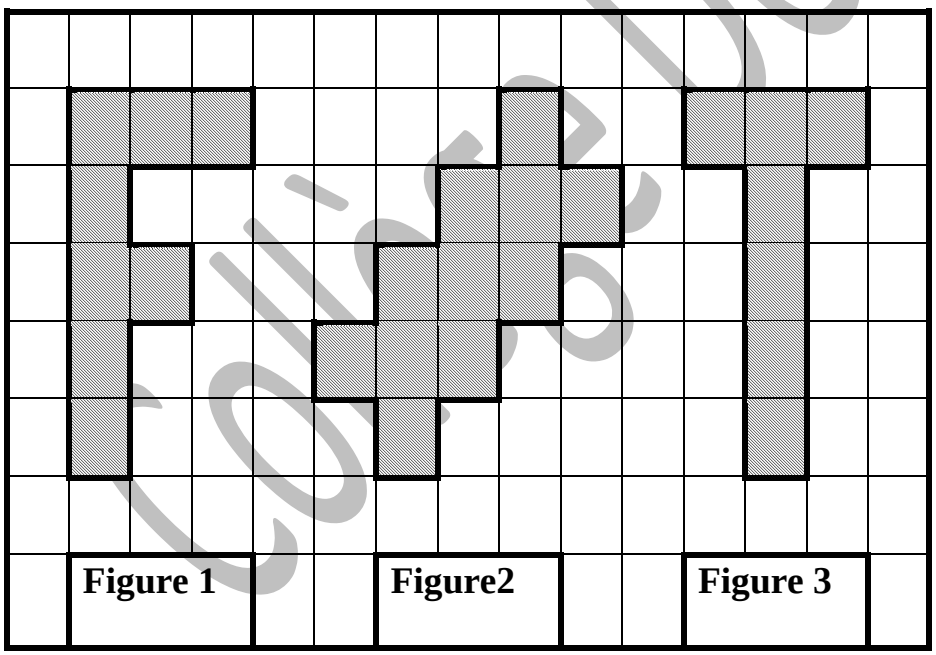

Fig.1 Aire = 8 unités d'aire	**Fig. 2 Aire = 11 unités d'aire**	**Fig. 3 Aire =7 unités d'aire**

Collège De LA Salle